D1 Prüfung - Übungsblatt 1

7. Bestimme die Töne (mit Oktavlagen), schreibe die Noten (Ganze Noten):



8. Bilde und benenne folgende Intervalle aufwärts:



9. Schreibe folgende Dur-Tonleitern in Viertel Noten:

B-Dur aufwärts, beginne beim b



G-Dur abwärts, beginne beim g



D-Dur aufwärts, beginne beim d



A-Dur abwärts, beginne beim a1



10. Welche Dur-Tonarten verbergen sich in den folgenden Melodien?



www.nette-klarinette.de © 2023

11. Vervollständige die angegebenen Grundtöne zu Dur-Dreiklängen in der Grundstellung und benenne diese:

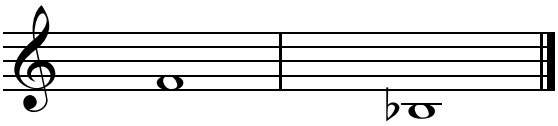



12. Bestimme folgende Akkorde:



13. Setze die fehlenden Taktstriche (volltaktiger Beginn):



14. Ergänze die Takte mit den fehlenden Pausen



15. Schreibe die Taktschläge unter die Noten:



16. Was bedeuten folgende musikalische Ausführungen?

Moderato =

legato =

Da Capo =

accelerando =

www.nette-klarinette.de © 2023